MATEMATYKA - KARTA POWTÓRZENIOWA nr1

FIGURY GEOMETRYCZNE – WIELOKĄTY

W miejsce kropek wpisz odpowiednie liczby.



Ma ..... wierzchołki.

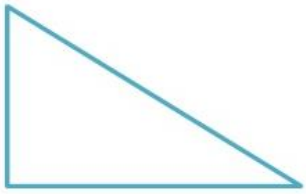

Ma ..... wierzchołki.



Ma ..... wierzchołków.

Ma ..... wierzchołków.

Policz kąty w każdej figurze, wpisz liczbę w miejsce kropek.

Ma ..... kąty.

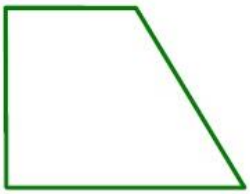

Ma ..... kąty.

Ma ..... kątów.

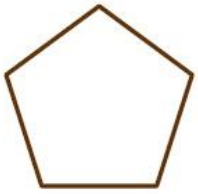

Ma ..... kątów.

Wpisz odpowiednie liczby.

..... boki
..... kąty
..... wierzchołki

..... boków
..... kątów
..... wierzchołków

..... boki
..... kąty
..... wierzchołki

Pokoloruj na niebiesko tylko te figury, które mają 4 boki, 4 kąty.

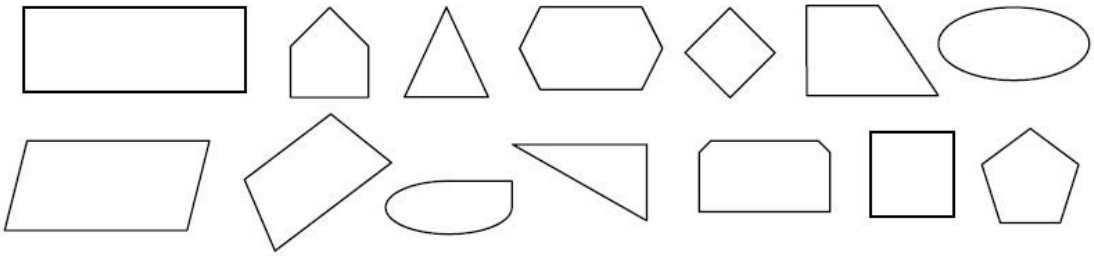

Zamalowane figury to czworokąty.