Napisz, która godzina była lub będzie uwzględniając podany czas.

ZEGARY PO LEWEJ WSKAZUJĄ GODZINY PRZED POŁUDNIEM

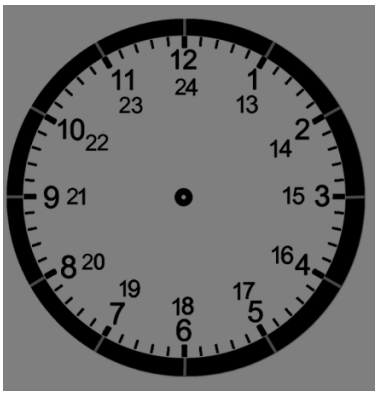

20 minut później będzie godzina

……

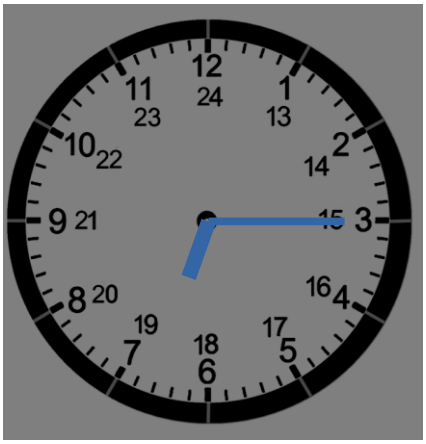

kwadrans wcześniej była godzina

……

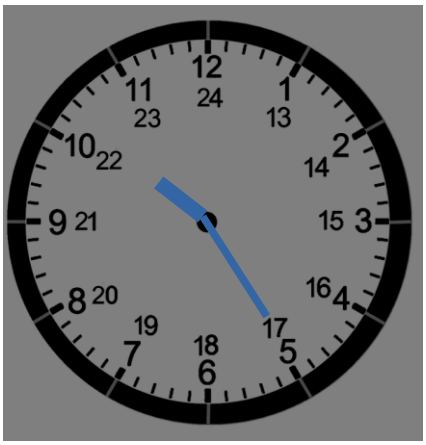

kwadrans wcześniej była godzina

……

ZEGARY PO PRAWEJ WSKAZUJĄ GODZINY PO POŁUDNIU

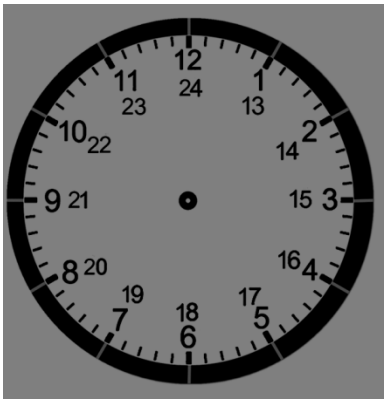

10 minut wcześniej była godzina

……..……..……..……..……..…….

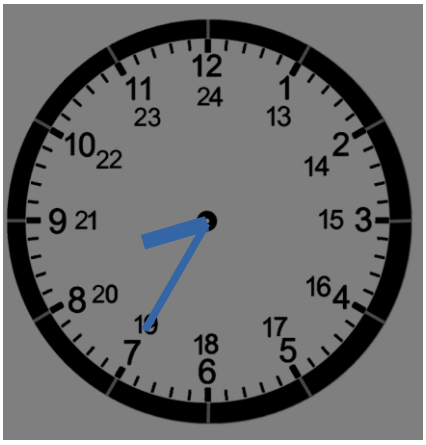

2 kwadranse później będzie godzina

……

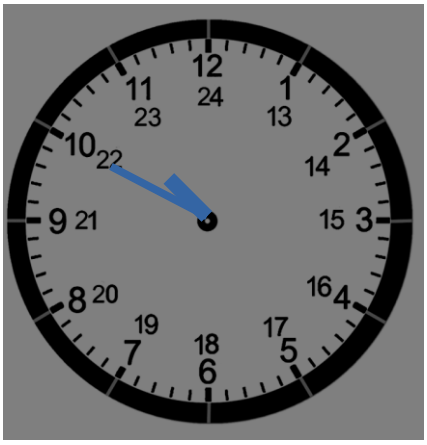

30 minut później będzie godzina

……..……..……...